ESCUELA DE SAN
VICENTE ALTO
El Carmen

GUIA DE REFORZAMIENTO N° 2 (quinto básico)

Estudiante:		Curso:	Calificación:
Profesor:		Fecha:	
Puntaje ideal: 7	Puntaje logrado:		

Instrucciones:

OBJETIVO DE APRENDIZAJE A REFORZAR
OA 23: Demostrar que comprenden el concepto de área de un rectángulo y de un cuadrado: -reconociendo que el área de una superficie se mide en unidades cuadradas; -seleccionando y justificando la elección de la unidad estandarizada (cm² y m²); -determinando y registrando el área en cm² y m² en contextos cercanos; -construyendo diferentes rectángulos para un área dada (cm² y m²) para mostrar que distintos rectángulos pueden tener la misma área; -usando software geométrico.
INSTRUCCIONES :
Lee con atención cada pregunta, resuelve la situación planteada en la guía de aprendizaje y marca tu alternativa correcta

1 El dibujo muestra el tamaño del terreno de una casa que se destinará para plantar pasto.¿Qué cantidad de terreno se ha destinado para plantar pasto? **(1 pts.)**

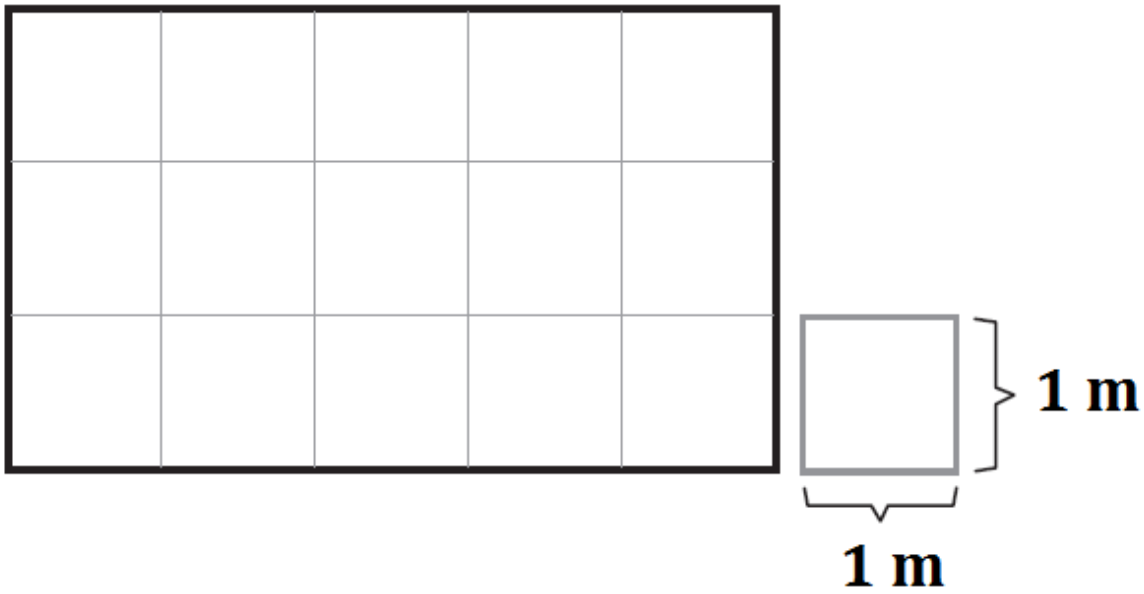

(A) 1 cm^2

(B) 5 cm^2

(C) 8 cm^2

(D) 15 cm^2

2 El área total de la figura formada por un rectángulo y un cuadrado, se obtiene calculando: **(1 pts.)**

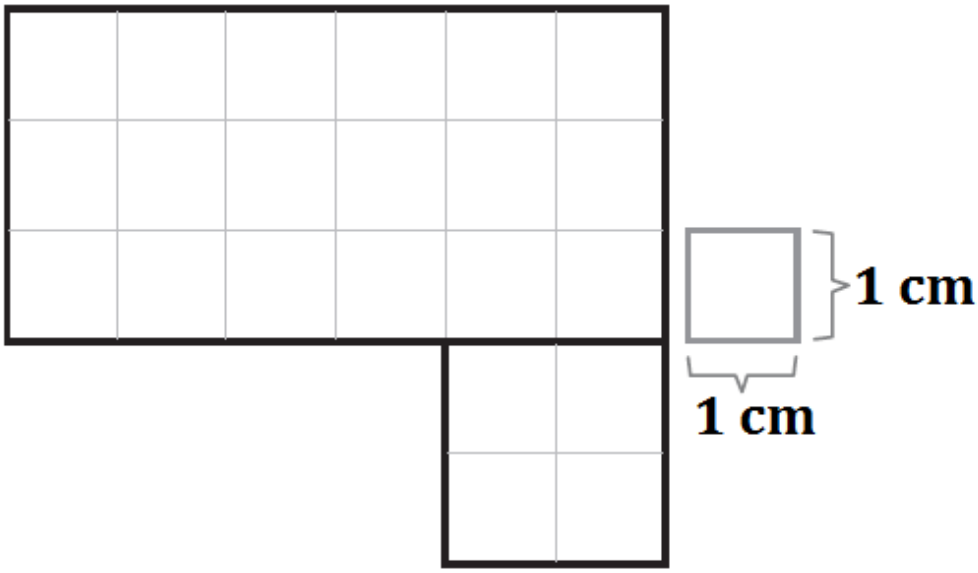

(A) 6 + 3 + 2 + 2

(B) 6 • 3 + 2 • 2

(C) 6 + 3 • 2 + 2

(D) 6 + 3 + 2 + 1

3 Los cuadrados que cubren el rectángulo tienen igual medida. Las medidas de los lados del rectángulo, son: **(1 pts.)**

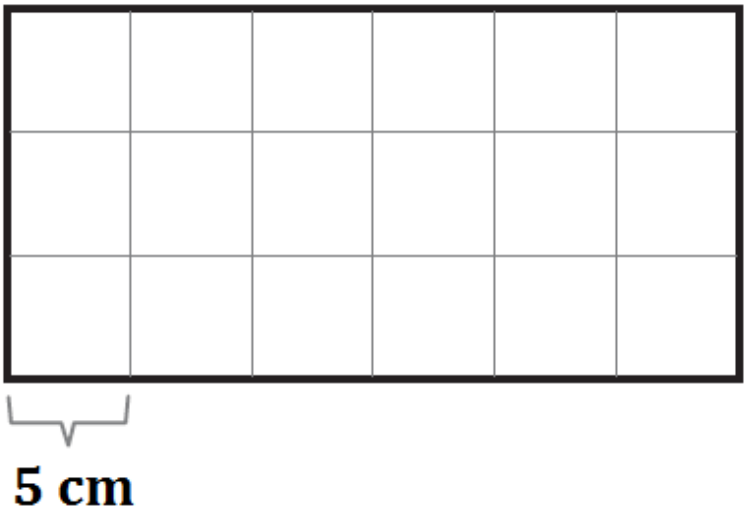

(A) largo 5 cm; ancho 3 cm

(B) largo 6 cm; ancho 3 cm

(C) largo 30 cm; ancho 15 cm

(D) largo 30 cm; ancho 30 cm

4 El perímetro del rectángulo es: **(1 pts.)**



(A) 30 cm

(B) 45 cm

(C) 60 cm

(D) 90 cm

5 Observa. ¿Cuánto mide el perímetro del rectángulo? **(1 pts.)**

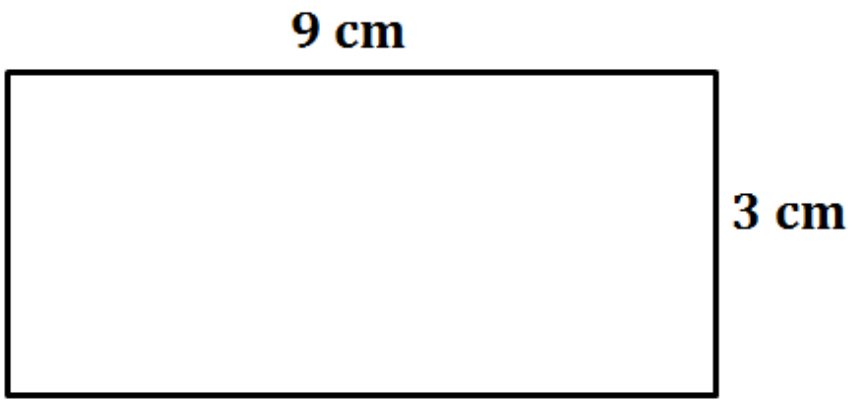

(A) 12 cm

(B) 18 cm

(C) 24 cm

(D) 27 cm

6 La siguiente imagen muestra el muro que pintó Juan Carlos. ¿Cuánto mide la superficie del muro que pintó Juan Carlos? **(1 pts.)**

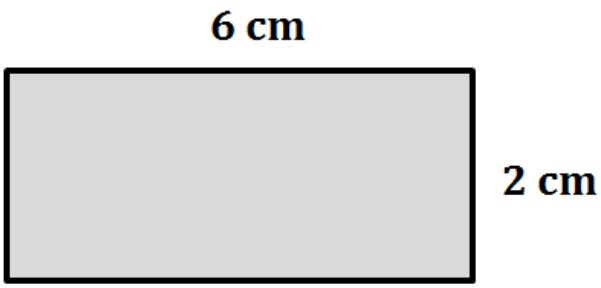

(A) 8 cm^2

(B) 12 cm^2

(C) 16 cm^2

(D) 24 cm^2

7 **Observa la figura:** **(1 pts.)**

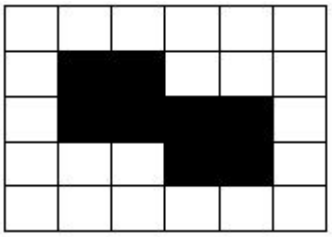

Si cada cuadrado mide 1 cm^2, ¿cuál es el área de la figura sombreada?

A 10 cm^2

B 12 cm^2

C 14 cm^2

D 8 cm^2